## Parcours A

**A1** Il y a une erreur dans la liste des consignes correspondant à ce parcours.
**Repère**-la et **corrige**-la.

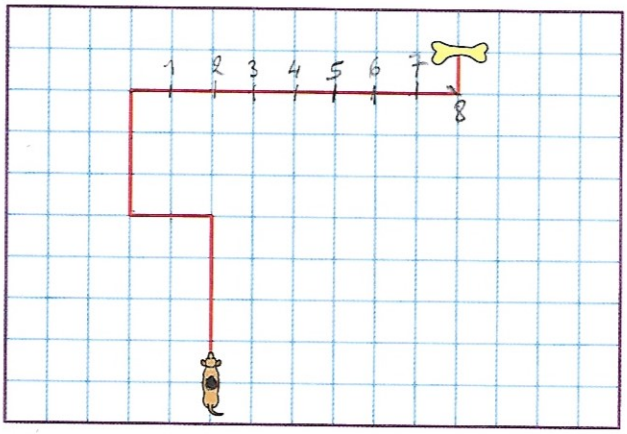


AV 4 – TG – AV 2 – TD – AV 3 – TD – AV ~~7~~ 8 – TG – AV 1

**A2** **Écris** la liste des consignes correspondant au parcours de l'escargot.

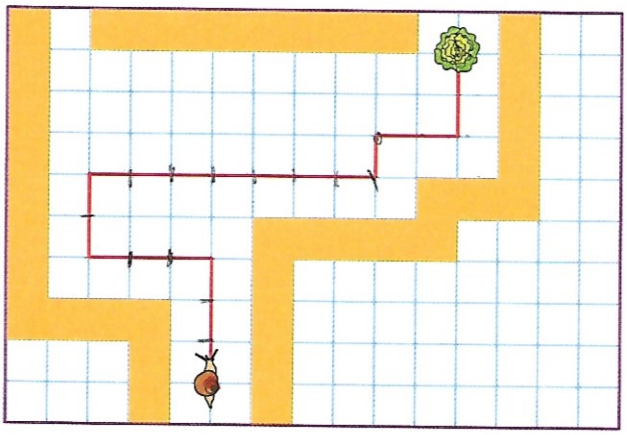

AV 3 – TG – AV 3 – TD – AV 2 – TD – AV 7 – TG – AV 1 – TD – AV 2 – TG – AV 2
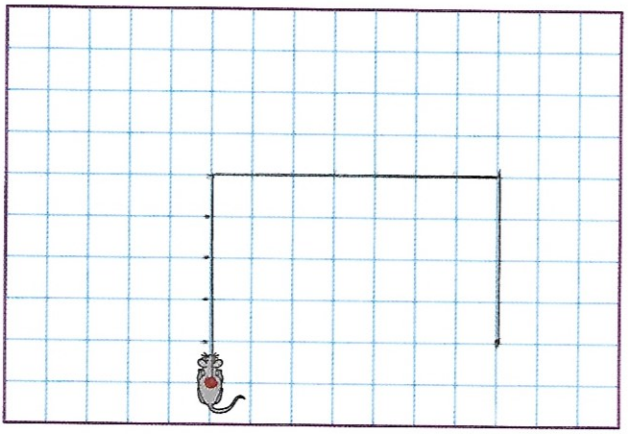
**A3** **Trace** le parcours suivant sur le quadrillage.
AV 5 – TD – AV 7 – TD – AV 4